UNIVERSIDADE FEDERAL DO PARANÁ

COMISSÃO DE HOMOLOGAÇÃO DE PEDIDOS DE REVALIDAÇÃO DE DIPLOMA DE REFUGIADOS

NÚCLEO DE CONCURSOS/PROGRAD

Editais n° 57 e 59/2019 – NC - Prova objetiva - 04/08/2019

INSCRIÇÃO	TURMA	NOME DO CANDIDATO

ASSINO DECLARANDO QUE LI E COMPREENDI AS INSTRUÇÕES ABAIXO:	ORDEM

919 – Farmácia - Bacharelado

INSTRUÇÕES

1. Confira, acima, o seu número de inscrição, turma e nome. Assine no local indicado.

2. Aguarde autorização para abrir o caderno de prova.

3. Antes de iniciar a prova, confira a numeração de todas as páginas.

4. A prova desta fase é composta de 30 questões objetivas.

5. Nesta prova, as questões são de múltipla escolha, com 5 (cinco) alternativas cada uma, sempre na sequência **a**, **b**, **c**, **d**, **e**, das quais somente uma deve ser assinalada.

6. A interpretação das questões é parte do processo de avaliação, não sendo permitidas perguntas aos aplicadores de prova.

7. Ao receber o cartão-resposta, examine-o e verifique se o nome nele impresso corresponde ao seu. Caso haja irregularidade, comunique-a imediatamente ao aplicador de prova.

8. O cartão-resposta deverá ser preenchido com caneta esferográfica preta, tendo-se o cuidado de não ultrapassar o limite do espaço para cada marcação.

9. O tempo de resolução das questões, incluindo o tempo para preenchimento do cartão-resposta, é de 4 (quatro) horas.

10. Não será permitido ao candidato:

a) Manter em seu poder relógios e qualquer tipo de aparelho eletrônico ou objeto identificável pelo detector de metais. Tais aparelhos deverão ser DESLIGADOS e colocados OBRIGATORIAMENTE dentro do saco plástico, que deverá ser acomodado embaixo da carteira ou no chão. É vedado também o porte de armas.

b) Usar boné, gorro, chapéu ou quaisquer outros acessórios que cubram as orelhas, ressalvado o disposto nos itens 5.6.3 do Edital 57/2019.

c) Usar fone ou qualquer outro dispositivo no ouvido. O uso de tais dispositivos somente será permitido quando indicado para o atendimento especial.

d) Levar líquidos, exceto se a garrafa for transparente e sem rótulo.

e) Comunicar-se com outro candidato, usar calculadora e dispositivos similares, livros, anotações, réguas de cálculo, impressos ou qualquer outro material de consulta.

f) Portar carteira de documentos/dinheiro ou similares.

g) Usar óculos escuros, ressalvados os de grau, quando expressamente por recomendação médica, devendo o candidato, então, respeitar o subitem 5.6.5 do Edital 57/2019.

h) Emprestar ou tomar emprestados materiais para realização das provas.

i) Ausentar-se da sala de provas sem o acompanhamento do fiscal, antes do tempo mínimo de permanência estabelecido no item 7.17 ou ainda não permanecer na sala conforme estabelecido no item 7.18 do Edital 57/2019.

j) Fazer anotação de informações relativas às suas respostas (copiar gabarito) fora dos meios permitidos item 7.19 a.

Caso alguma dessas exigências seja descumprida, o candidato será excluído do processo seletivo.

11. Será ainda excluído do Concurso Público o candidato que:

a) Lançar mão de meios ilícitos para executar as provas.

b) Ausentar-se da sala de provas portando o Cartão-Resposta e/ou o Caderno de Questões, conforme o item 7.19 do Edital 57/2019.

c) Perturbar, de qualquer modo, a ordem dos trabalhos e/ou agir com descortesia em relação a qualquer dos examinadores, executores e seus auxiliares, ou autoridades presentes.

d) Não cumprir as instruções contidas no Caderno de Questões de prova e no Cartão-Resposta.

e) Não permitir a coleta de sua assinatura.

f) Não se submeter ao sistema de identificação por digital e detecção de metal.

12. Ao concluir a prova, permaneça em seu lugar e comunique ao aplicador de prova. Aguarde autorização para entregar o Caderno de Questões de prova e o Cartão-Resposta.

13. Se desejar, anote as respostas no quadro disponível no verso desta folha, recorte na linha indicada e leve-o consigo**.**

DURAÇÃO DESTA PROVA: 4 horas

✂ . . . . . .

RESPOSTAS					
01 -	06 -	11 -	16 -	21 -	26 -
02 -	07 -	12 -	17 -	22 -	27 -
03 -	08 -	13 -	18 -	23 -	28 -
04 -	09 -	14 -	19 -	24 -	29 -
05 -	10 -	15 -	20 -	25 -	30 -

01 - A hemoglobina glicada (HbA1c) é um marcador para o diabetes mellitus. Os valores de HbA1c de dois pacientes (Pacientes A e B) com diabetes mellitus tipo 2 foram monitorados durante um ano, conforme o gráfico ao lado. A linha horizontal pontilhada no valor de 6,5% representa o limite máximo do intervalo de referência para HbA1c. Considerando o uso diagnóstico da HbA1c, assinale a alternativa correta.

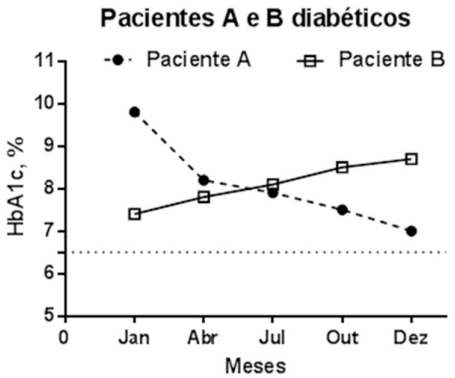

►a) O paciente A apresentou melhora do controle glicêmico ao longo do ano.
b) O paciente A não mostrou alteração do controle glicêmico.
c) O paciente B apresentou melhora do controle glicêmico ao longo do ano.
d) O paciente B não mostrou alteração do controle glicêmico
e) O controle glicêmico pode ser avaliado pela relação HbA1c/glicemia de jejum.

02 - Várias metodologias para quantificação de biomarcadores no sangue seguem a Lei de Beer. A figura ao lado representa a curva padrão (ou curva de calibração) de um método laboratorial. Analisando a figura, qual o limite da linearidade do método?

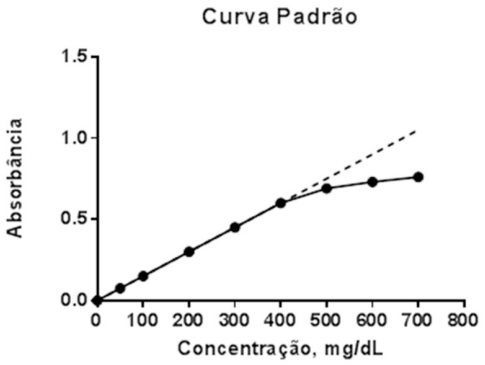

a) 50 mg/dL.
b) 100 mg/dL.
►c) 400 mg/dL.
d) 500 mg/dL.
e) 700 mg/dL.

03 - Alterações na função renal estão presentes em vários processos patológicos. São ensaios laboratoriais no soro que avaliam a função de filtração glomerular da função renal:

a) Cálcio e fósforo.
►b) Ureia e creatinina.
c) Bilirrubina e troponina.
d) Curva glicêmica e hemoglobina glicada.
e) Amilase e lipase.

04 - A vacina para hepatite B é produzida por tecnologia de DNA recombinante e faz parte do calendário de vacinação nacional. A identificação sorológica de indivíduos vacinados envolve a avaliação de antígenos e anticorpos. A combinação de marcadores utilizada para determinar indivíduos imunes por vacinação é:

a) HBsAg negativo, anti-HBc positivo e anti-HBs negativo.
b) HBsAg negativo, anti-HBc positivo e anti-HBs positivo.
c) HBsAg positivo, anti-HBc negativo e anti-HBs positivo.
d) HBsAg positivo, anti-HBc positivo e anti-HBs positivo.
►e) HBsAg negativo, anti-HBc negativo e anti-HBs positivo.

05 - Considerando a figura ao lado, que representa o perfil dos marcadores da infecção pelo HIV (vírus da imunodeficiência humana) na corrente sanguínea, assinale a alternativa que corresponde à ordem cronológica do aparecimento desses marcadores.

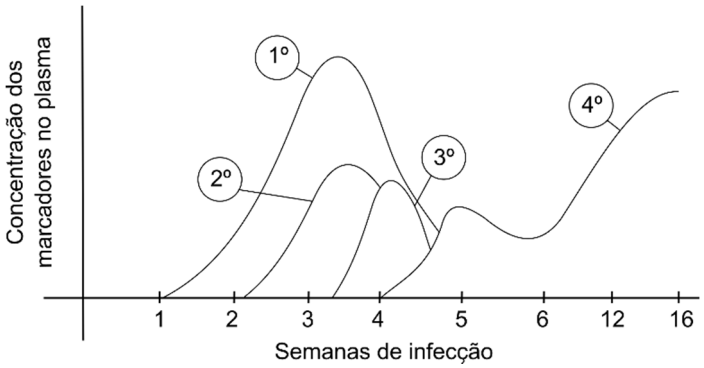

►a) 1° RNA, 2° P24, 3° IgM e 4° IgG Total.
b) 1° P24, 2° RNA, 3° IgM e 4° IgG Total.
c) 1° RNA, 2° IgM, 3° P24 e 4° IgG Total.
d) 1° P24, 2° IgM, 3° RNA e 4° IgG Total.
e) 1° P24, 2° IgM, 3° RNA e 4° IgG Total.

06 - Para diagnóstico e monitoramento da sífilis, o princípio e o tipo do teste imunológico VDRL (*Venereal Disease Research Laboratory*) são, respectivamente:

a) ELISA e não treponêmico.
b) imunofluorescência e não treponêmico.
c) imunofluorescência e treponêmico.
►d) floculação e não treponêmico.
e) floculação e treponêmico.

07 - A quantificação da glicemia, através do método da glicose oxidase, gera uma quantidade de cromógeno proporcional à concentração de glicose no sangue. Uma amostra de soro, tratada por esse método, apresentou absorbância de 0,250, enquanto um padrão de glicose de 100 mg/dL, tratado de forma similar, apresentou absorbância de 0,100. Considerando que o método respeita a Lei de Beer até 400 mg/dL, qual a concentração da glicose na amostra de soro?

a) 25 mg/dL.
b) 50 mg/dL.
c) 100 mg/dL.
►d) 250 mg/dL.
e) 500 mg/dL.

08 - A transmissão das viroses respiratórias é realizada de pessoa a pessoa por meio de aerossóis provenientes do sistema respiratório ou pelo contato com fômites e superfícies contaminadas. Os vírus penetram o trato respiratório superior, através da nasofaringe, podendo ser impedidos de estabelecer a infecção, dependendo de determinados mecanismos, como os inibidores de protease e resposta imunológica local. São grupos de vírus associados a infecções respiratórias:

a) Rotavírus, adenovirus, coronavírus e rinovírus.
b) Vírus sincicial respiratório, adenovírus, astrovírus e vírus da influenza.
c) Adenovírus, vírus sincicial respiratório, rotavírus e astrovírus.
►d) Rinovírus, vírus sincicial respiratório, adenovírus, e vírus da influenza.
e) Vírus sincicial respiratório, astrovírus, rinovírus e coronavírus.

09 - Um paciente de 6 anos apresentou perda de peso rápido, polidipsia, poliúria e glicemia ao acaso de 410 mg/dL. Qual o tipo de diabetes compatível com esses sinais e sintomas?

►a) Diabetes tipo 1.
b) Diabetes tipo 2.
c) Pré-diabetes.
d) Diabetes nefrogênico.
e) Diabetes insípido.

10 - Considerando os lipídeos séricos, qual lipoproteína transporta a maior fração de colesterol e está associada ao maior risco para doença cardiovascular?

a) Quilomicron.
b) Lipoproteína de densidade muito baixa (VLDL).
c) Lipoproteína de densidade alta (HDL).
d) Lipoproteína de densidade intermediária (IDL).
►e) Lipoproteína de densidade baixa (LDL).

11 - Os analisadores hematológicos automatizados estão presentes na rotina de muitos laboratórios de análises clínicas. Além de apresentarem alto nível de reprodutibilidade, também são capazes de fornecer alguns parâmetros sem equivalentes na tecnologia manual. Abaixo, estão representados três histogramas de distribuição de tamanho das hemácias obtidos por meio de impedância elétrica em um analisador hematológico convencional.

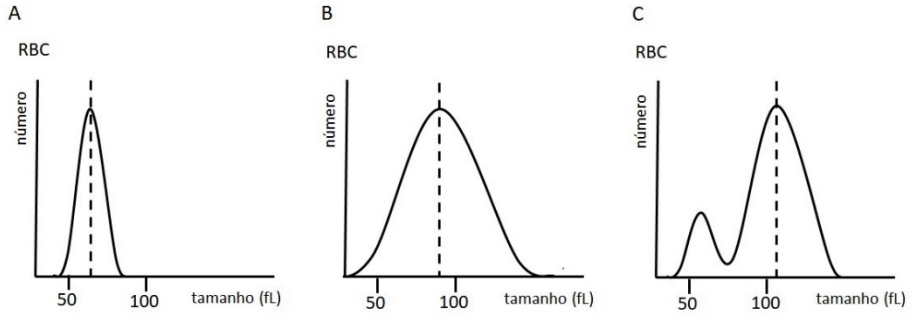

Com base nos gráficos acima, assinale a alternativa correta.

a) Nos gráficos A, B e C, a linha pontilhada representa a variação na distribuição do tamanho dos
►b) O gráfico C apresenta duas populações de hemácias com tamanhos diferentes.
c) O gráfico A apresenta maior variação na distribuição do tamanho dos eritrócitos do que o gráfico B.
d) O Volume Corpuscular Médio (VCM) das hemácias representadas pelo gráfico A é menor do que 50 fL.
e) O Volume Corpuscular Médio (VCM) das hemácias representadas pelo gráfico B é maior do que 100 fL.

12 - A identificação de antígenos eritrocitários é uma etapa necessária à prática transfusional segura e eficiente. Na rotina laboratorial de um banco de sangue, os testes de compatibilidade devem incluir a tipagem ABO e Rh do indivíduo. Sabendo que a determinação do Rh é feita por meio da detecção do antígeno D, observe o esquema abaixo representativo do método em microplaca e, baseado no padrão de aglutinação, assinale a alternativa que representa corretamente o resultado obtido para a identificação dos grupos ABO e Rh:

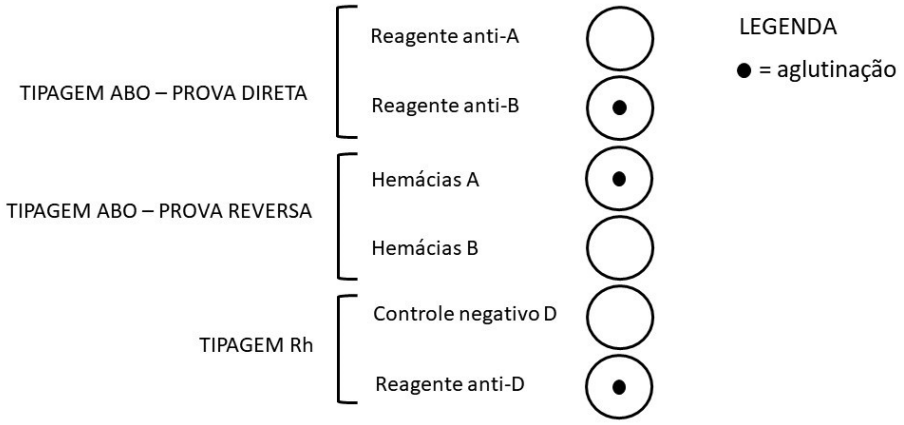

a) O+.
b) A-.
►c) B+.
d) AB+.
e) Fenótipo Bombay.

13 - Uma mãe recebe a seguinte prescrição para seu filho:

Novalgina® xarope ---- dar 5 mL antes de dormir, se tiver febre.

Essa mãe tem em sua casa um frasco de Novalgina® gotas, e solicita orientação para ajustar a dose. Sabendo que a Novalgina® gotas tem a concentração de 500 mg/mL de dipirona sódica e que cada 1 mL corresponde a 20 gotas, e que cada 1 mL de Novalgina® xarope contém 50 mg de dipirona sódica, assinale a alternativa que representa o número de gotas necessário para atender à prescrição:

a) 5 gotas.
►b) 10 gotas.
c) 20 gotas.
d) 50 gotas.
e) 100 gotas.

14 - Com relação aos medicamentos sujeitos a controle especial, regulamentados pela Portaria nº 344/1998 (SVS/MS) e suas atualizações, assinale a alternativa correta.

a) Substâncias constantes nas listas A1, A2 e A3 exigem a notificação de receita azul, com limite de quantidade por prescrição para 30 dias de tratamento.
b) Substâncias constantes nas listas B1 e B2 exigem a notificação de receita amarela, com limite de quantidade por prescrição para 60 dias de tratamento.
c) Para medicamentos injetáveis das listas A1, A2, A3, B1 e B2, o limite por prescrição é de 3 ampolas.
d) As receitas de medicamentos sujeitos a controle especial têm validade em todo o território nacional por até 60 dias.
►e) Substâncias constantes na lista C1 exigem a receita de controle especial de cor branca, com limite de 3 substâncias por receita..

15 - Sobre a RDC 44/2009, que dispõe sobre as Boas Práticas Farmacêuticas e sobre a prestação de serviços farmacêuticos em farmácias e drogarias, considere as seguintes afirmativas:

1. **As farmácias ou drogarias devem possuir Autorização de Funcionamento de Empresa expedida pela ANVISA, Licença Sanitária expedida pelo órgão estadual ou municipal de Vigilância Sanitária, e Certidão de Regularidade Técnica emitida pelo Conselho Federal de Farmácia.**
2. **As farmácias e drogarias devem ter, obrigatoriamente, a assistência de farmacêutico responsável técnico ou de seu substituto durante todo o horário de funcionamento do estabelecimento.**
3. **É permitida às farmácias e drogarias a aferição dos parâmetros fisiológicos Pressão Arterial e Temperatura Corporal e dos parâmetros bioquímicos Glicemia Capilar e Colesterol Total.**
4. **É permitida às farmácias e drogarias a administração de medicamentos, exceto aqueles de uso exclusivo hospitalar.**

Assinale a alternativa correta.

a) Somente as afirmativas 1 e 2 são verdadeiras.
b) Somente as afirmativas 1 e 3 são verdadeiras.
►c) Somente as afirmativas 2 e 4 são verdadeiras.
d) Somente as afirmativas 3 e 4 são verdadeiras.
e) As afirmativas 1, 2, 3 e 4 são verdadeiras.

16 - No certificado de análise emitido pelo fornecedor, a matéria prima "ácido folínico" apresentou umidade de 8%. Qual é o fator de correção (Fc) para esse produto?

a) 0,05.
b) 0,55.
c) 0,9.
►d) 1,08.
e) 2.

17 - Considere a formulação abaixo:

- **Fármaco X: 0,15% p/p.**
- **Estearato de Al: 0,25% p/p.**
- **Aerosil: 1,0% p/p.**
- **Talco farmacêutico: 30,0% p/p.**
- **Lauril sulfato de sódio: 2,0 % p/p.**
- **Amido q.s.p. 100,0% p/p.**

A quantidade de matéria prima necessária para o preparo de 60 cápsulas dessa formulação é:

a) Fármaco X; 0,09 g – estereato de Al: 0,6g – aerosil: 0,15g – talco farmacêutico: 18 g – lauril sulfato de sódio: 1,2 g.
►b) Fármaco X; 0,09 g – estereato de Al: 0,15g – aerosil: 0,6g – talco farmacêutico: 18 g – lauril sulfato de sódio: 1,2 g.
c) Fármaco X; 0,15 g – estereato de Al: 0,6 g – aerosil: 0,1 g – talco farmacêutico: 15 g – lauril sulfato de sódio: 1,0 g.
d) Fármaco X; 0,15 g – estereato de Al: 0,09 g – aerosil: 0,1g – talco farmacêutico: 30 g – lauril sulfato de sódio: 2,0 g.
e) Fármaco X; 0,15 g – estereato de Al: 0,25 g – aerosil: 0,6g – talco farmacêutico: 30 g – lauril sulfato de sódio: 2,0 g.

18 - Considere a seguinte prescrição:

Hidrocortisona ..... 0,1 g
Creme base q.s.p…… 30 g

Dados: Peso Molecular do acetato de hidrocortisona = 405,51g.
Peso Molecular da hidrocortisona base = 362,47g.

Qual a quantidade de hidrocortisona deve ser pesada ao se utilizar o seu sal (acetato de hidrocortisona)?

a) 0,092 g.
b) 0,92 g.
►c) 0,112 g.
d) 0.405 g.
e) 0,767 g.

19 - A substância química que representa um importante queratolítico é o/a:

a) ácido bórico.
b) ureia.
c) algowhite.
►d) ácido salicílico.
e) ácido ascórbico.

20 - O sal de lítio é usado, como medicamento em tratamentos de transtornos bipolares. A substância que diminui os níveis plasmáticos desse medicamento é:

►a) cafeína.
b) fluoxetina.
c) amitriptilina.
d) clomipramina.
e) carbamazepina.

21 - Sobre a química medicinal farmacêutica, assinale a alternativa correta.

a) A parte da estrutura do fármaco responsável pela resposta farmacológica é o fluoróforo.
►b) Para se realizar um estudo de relação estrutura-atividade de uma classe de substâncias, deve-se realizar pequenas alterações na estrutura do protótipo e, em seguida, avaliar o efeito da alteração sobre a atividade biológica.
c) O aumento da lipofilia de uma substância pode ser resultado da inserção de um grupo fenila, alquila ou amino na molécula.
d) O grupo ácido carboxílico leva a aumento da lipofilia da molécula, atrapalhando a etapa de absorção.
e) A introdução de grupos volumosos na molécula do fármaco poderá torná-lo mais ativo, pois resultará no aumento da repulsão estérica no sítio de ligação.

22 - O anti-hipertensivo propranolol apresenta estrutura química com duas possibilidades estereoisoméricas. A sua forma "S" tem atividade farmacológica bem superior à sua forma "R". Baseando-se no esquema abaixo (interação fármaco-receptor), assinale a alternativa correta.

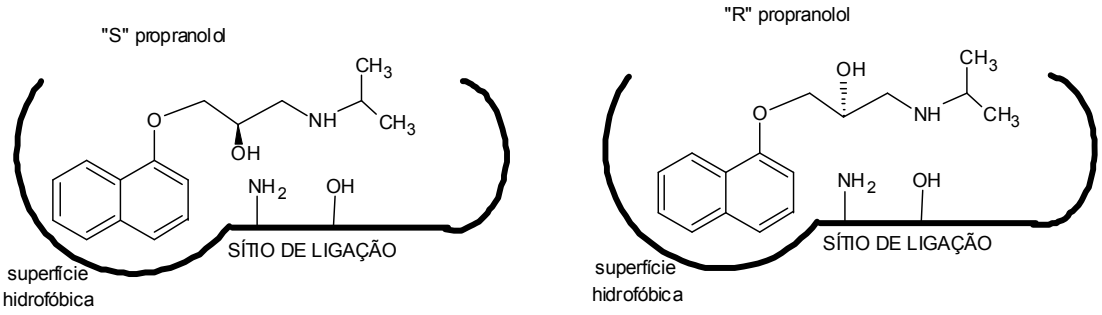

a) A atividade superior da forma "S" relaciona-se ao seu maior caráter hidrofóbico.
b) A atividade inferior da forma "R" relaciona-se ao seu maior caráter hidrofóbico.
►c) A atividade superior da forma "S" relaciona-se ao maior número de interações com o sítio de ligação, quando comparada à forma "R".
d) A atividade superior da forma "S" relaciona-se às ligações eletrostáticas com o sítio de ligação, quando comparada à forma "R.
e) As duas moléculas apresentam massas moleculares distintas.

23 - Paciente feminina, 25 anos, 75 kg, 1,55 m, ingeriu há aproximadamente 2 horas e 30 minutos 30 comprimidos de fenobarbital 100 mg, em tentativa de suicídio. A paciente já fazia uso há mais de 6 meses de desobesi-M para controle do peso. A paciente foi levada ao hospital, e foi solicitada a pesquisa toxicológica dessas duas substâncias na urina. O procedimento analítico no laboratório seguirá o esquema ao lado. Considere as seguintes etapas:

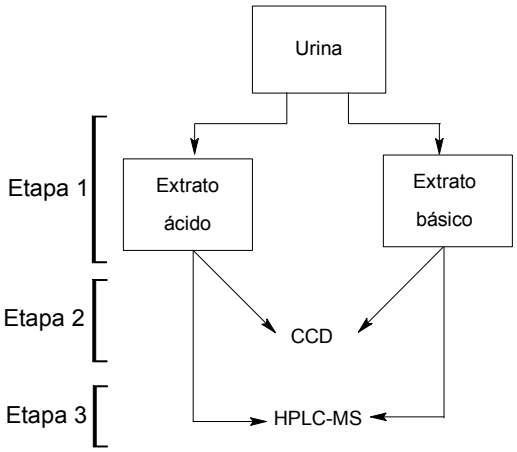

1. **Etapa 1: a necessidade de analisar o fenobarbital no extrato ácido e o desobesi (femproporex) no extrato básico deve-se ao caráter ácido e básico das substâncias, respectivamente.**
2. **Etapa 2: na análise por CCD, faz-se uma triagem para a verificação da presença dos fármacos nos extratos, cujo resultado não é definitivo e deverá ser confirmado através de um método mais preciso.**
3. **Etapa 3: o método HPLC-MS é uma análise de caráter confirmatório que será realizada apenas se a triagem apresentar um resultado positivo para qualquer umas das substâncias analisadas.**

É/São etapa(s) envolvida(s) nesse processo analítico:

a) 2 apenas.
b) 3 apenas.
c) 1 e 2 apenas.
d) 1 e 3 apenas.
►e) 1, 2 e 3.

24 - Sobre intoxicações por metais em humanos, assinale a alternativa correta.

a) Os órgãos preferencialmente afetados, na intoxicação crônica pelo chumbo, são os músculos e o cérebro.
b) O mercúrio é extremamente tóxico, pois ele se liga aos eritrócitos, impedindo o transporte de oxigênio.
►c) A intoxicação crônica por chumbo produz como efeito hematológico a diminuição da síntese do grupamento heme.
d) Os metais são degradados quando em contato com a água, diminuindo assim a sua toxicidade em humanos.
e) O mercúrio na sua forma orgânica não é absorvido pelo organismo.

25 - Sobre tipos de amostra e análise para detecção de cocaína e de álcool, assinale a alternativa correta.

►a) O sangue é a amostra mais comumente usada para análise quantitativa de álcool.
b) A cromatografia líquida/espectrometria de massas (LC/EM) é o método analítico mais frequentemente usado para a análise da cocaína.
c) O cabelo acumula cocaína e, portanto, deve ser escolhido como amostra.
d) As desvantagens do método *headspace* com microextração em fase sólida (MEFS) para análise do álcool são o alto custo, a dificuldade operacional, a inexistência de sistema portátil e a baixa recuperação da amostra.
e) A quantificação da concentração de álcool em amostra líquida colhida de humor vítreo pode resultar em dados menos confiáveis do que a amostra de sangue, no caso de cadáver putrefato.

26 - São atribuições privativas ao farmacêutico no Brasil:

a) Responsabilidade técnica por laboratório de análises clinicas; responsabilidade técnica por depósitos de produtos farmacêuticos de qualquer natureza.
b) Fiscalização profissional sanitária e técnica de estabelecimentos farmacêuticos ou de natureza farmacêutica; responsabilidade técnica por indústria que fabrique insumos farmacêuticos para uso humano.
c) Desempenho da função de manipulação de fórmulas magistrais e farmacopeicas; responsabilidade técnica por laboratório em que se pratique exames de caráter químico-toxicológico.
►d) Responsabilidade técnica por estabelecimento farmacêutico em que se pratique extração, purificação de insumos farmacêuticos de origem vegetal, animal e mineral; realização de perícias técnico-legais relacionados com atividades, produtos, fórmulas, processos e métodos farmacêuticos ou de natureza farmacêutica.
e) Responsabilidade técnica por indústria farmacêutica que fabrique medicamentos de uso veterinário; responsabilidade técnica por indústria farmacêutica que fabrique medicamentos com indicações e/ou ações terapêuticas, anestésicos ou auxiliares de diagnóstico, ou capazes de criar dependência física ou psíquica.

27 - Em relação à regulamentação de medicamentos no Brasil, é correto afirmar:

a) Nenhum medicamento pode ser comercializado e industrializado sem estar registrado pela vigilância sanitária da Unidade Federativa produtora ou importadora do medicamento.
b) São isentos de registro aqueles medicamentos de baixo risco, cuja dispensação independe da apresentação da prescrição médica.
c) Os medicamentos somente serão considerados registrados a partir da data da publicação no Diário Oficial da Unidade Federativa responsável pelo registro.
d) O farmacêutico não pode exercer a função de pesquisador envolvendo pesquisa de caráter clínico.
►e) Qualquer modificação da fórmula do medicamento registrado dependerá de autorização prévia e expressa do órgão responsável pela concessão do registro.

28 - No serviço de dispensação, é responsabilidade e atribuição do farmacêutico:

a) Receitar fármacos após avaliação do quadro clínico do paciente.
►b) Respeitar o direito do usuário de conhecer o medicamento que lhe é dispensado e de decidir sobre sua saúde e seu bem estar.
c) Avaliar a prescrição médica e receitar outros fármacos caso seja necessário.
d) Exigir receita mesmo em caso de medicamentos de venda livre.
e) É aquela preparada e mantida no laboratório da farmácia, aguardando a prescrição correspondente para acabamento e dispensação.

29 - Sobre preparação magistral, assinale a alternativa correta.

►a) É aquela preparada na farmácia para ser dispensada atendendo a uma prescrição médica.
b) É o procedimento farmacotécnico para obtenção do produto manipulado, compreendendo a avaliação farmacêutica da prescrição.
c) É aquela preparação isenta de prescrição, cuja fórmula está descrita em um formulário nacional reconhecido pela ANVISA.
d) É aquela preparada na farmácia, cuja fórmula esteja inscrita integralmente nas farmacopeias.
e) É aquela preparada e mantida no laboratório da farmácia, aguardando a prescrição correspondente para acabamento e dispensação.

30 - Um farmacêutico recebeu uma receita médica de clozapina, segundo a qual o paciente deveria tomar uma dose progressiva do medicamento, de modo que a dose diária ultrapassaria 1 g por dia. Nessa situação, considerando que se trata de uma substância de baixo índice terapêutico e de dose máxima recomendada igual a 900 mg por dia, o farmacêutico deverá:

a) reter a receita e notificar o conselho de classe do profissional prescritor quanto ao erro cometido por ele.
b) recusar-se a dispensar o medicamento e, assim, proteger a saúde do paciente.
c) dispensar o medicamento prescrito, respeitando o papel do prescritor.
d) alterar a prescrição do medicamento, indicando a posologia correta a ser seguida.
►e) entrar em contato com o profissional que prescreveu o medicamento para confirmar a prescrição.